الحركات المستقيمة الغير مستقلة للجسيمات

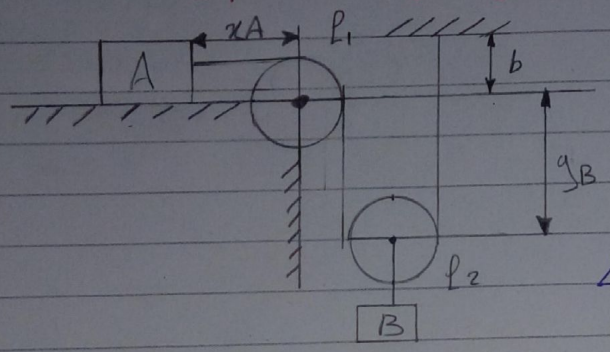

عندما ترتبط حركة جسم بحركة جسم آخر أو عدة أجسام أخرى نقول عن حركة أنها حركة غير مستقلة

$$l = x_A + 2y_B + l_1 + l_2 + b$$

$$x_A + 2y_B = 0 \Rightarrow const$$

$$\dot{x}_A + 2\dot{y}_B = 0$$

$$2v_A = -2v_B$$

$$a_A + 2a_B = 0$$

$$\left.\begin{array}{l} x_{A_1} + 2y_{B_1} = const \\ x_{A_0} + 2y_{B_0} = const \end{array}\right\} \Rightarrow \Delta x_A + 2\Delta y_B = 0$$

ملاحظة:

نحذف نظرياً ما فوق البكرة لاعتباره ثابتاً ونأخذ المقادير المتحركة.

أولاً: نلاحظ أن الجملة مكونة من عدة حبال وليس حبلاً واحداً ويكون طول الحبل الواحد ثابت. الحبل الأول: يخرج من البكرة A الى البكرة العليا فيلتف عليها وينزل الى C ثم يصعد

ويكون $y_A + 2y_C = const$

بالاشتقاق $v_A + 2v_C = 0$

مسألة:

يدور الحد (O,A) بسرعة زاوية ثابتة مع عقارب الساعة مما يؤدي إلى حركة المنزلقة P ضمن المجرى المحدد a كما هو مبين بالشكل أوجد سرعة وتسارع المنزلقة P والموافقة $\theta = 30$ أوجد المركبات القطبية

$$\ddot{r}, \dot{r}, \ddot{\theta}, \dot{\theta}, a_r, a_\theta, v_r, v_\theta$$

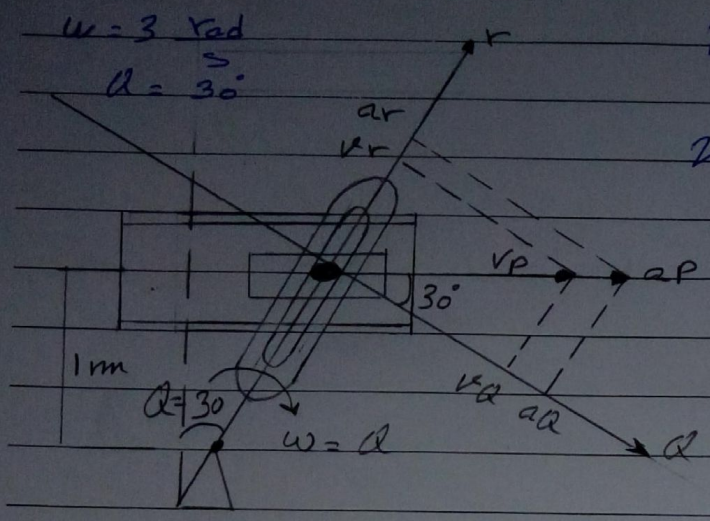

$v_p = \sqrt{v_r^2 + v_\theta^2}$

$v_r = \dot{r}$, $v_\theta = r.\dot{\theta}$

$r = \frac{1}{\cos 30} = \frac{2}{\sqrt{3}}$ m

$v_\theta = \frac{2}{\sqrt{3}} . 3 = 2\sqrt{3}\ m.s^{-1}$

$v_p = \frac{v_\theta}{\cos 30} = \frac{2\sqrt{3} \times 2}{\sqrt{3}} = 4\ m.s^{-1}$

$\dot{r} = v_r = v_p . \sin 30 = 4 . \sin 30 = 2\ m.s^{-1}$

$a_p = \sqrt{a_r^2 + a_\theta^2}$

$a_r = \ddot{r} - r.\dot{\theta}^2$, $a_\theta = r.\ddot{\theta} - 2\dot{r}.\dot{\theta}$

$a_\theta = 2\dot{r}.\dot{\theta} = 2 \times 2 \times 3 = 12\ m.s^{-2}$

$a_p = \frac{a_\theta}{\cos 30} = a_p = \frac{12 \times 2}{\sqrt{3}} = \frac{24}{\sqrt{3}} = 8\sqrt{3}\ (m.s^{-2})$

$a_r = a_p . \sin 30 = 8\sqrt{3} . \sin 30 = 4\sqrt{3}\ m.s^{-2}$

$a_r = \ddot{r} - r.\dot{\theta}^2 \Rightarrow 4\sqrt{3} = \ddot{r} - \frac{2}{\sqrt{3}} \times 9 \Rightarrow \ddot{r} = 10\sqrt{3}\ m.s^{-2}$

ملاحظة: نسمي $\ddot{r}$ تسارع نسبي ، r : اعتيادي ،
نقول عن $\ddot{\theta} = 0$ لأن $\omega = \theta = const$

مسألة 4 ص 156

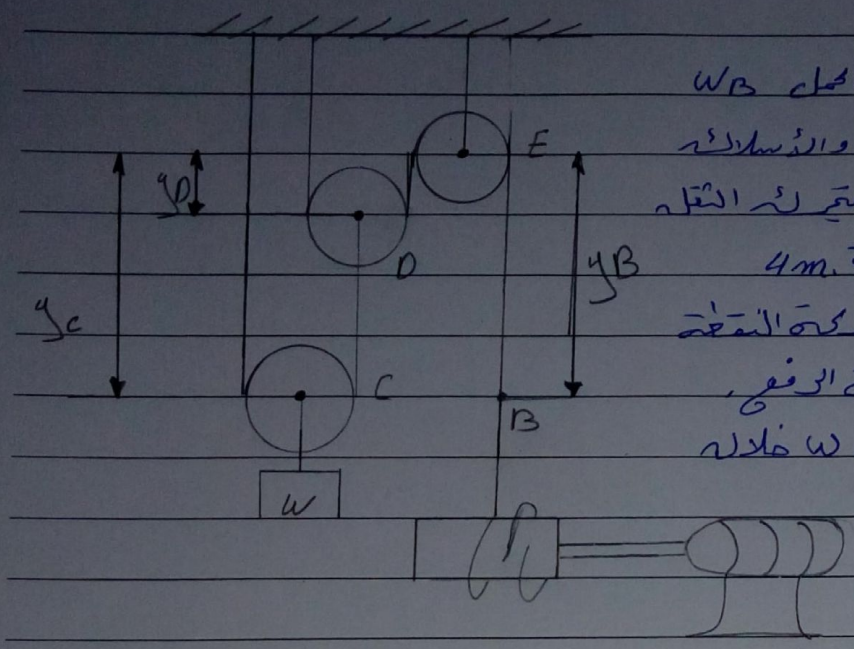

يقوم محرك كهربائي برفع الحمل W_B بمساعدة مجموعة من البكرات والأسلاك كما هو مبين في الشكل حيث يتحرك الثقل B للأعلى بسرعة مقدارها $4 m.s^{-1}$

المطلوب: حساب سرعة حركة النقطة C من السلك التابع لمجموعة الرفع، مقدار التغير في ارتفاع الحمل W خلال خمس ثواني.

تعطى العلاقة:

$$v_B = t^2 + 2t \ (m.s^{-1})$$

$$2y_C - y_D = const_1$$

$$\Rightarrow$$ نشتق

$$2y_D + y_B = const_2$$

$$2v_C - v_D = 0 \ldots (1) \ , \ 2a_C - a_D = 0 \ldots (2) \Rightarrow 2\Delta y_C - \Delta y_D = 0 \ldots (3)$$

$$2v_D + v_B = 0 \ldots (4) \ , \ 2a_D + a_B = 0 \ldots (5) \ , \ 2\Delta y_D + \Delta y_B = 0 \ldots (6)$$

من 4 نجد $\Leftarrow$ $v_D = -\frac{v_B}{2} \Leftarrow v_D = -\frac{1}{2}(t^2+2t)$

نعوض في (1) $\Leftarrow$ $v_C = v_W = \frac{v_D}{2} \Rightarrow -\frac{1}{4}(t^2+2t)$

نخرج 2 عامل مشترك $\Leftarrow$ $a_C = a_W = \frac{dv_W}{dt} = -\frac{1}{4}(2t+2) \Rightarrow a_W = -\frac{1}{2}(t+1)$

$$v_B = \frac{dy_B}{dt} \Rightarrow \int_{y_0}^{y} dy_B = \int_0^5 v_B \, dt$$

$$\Delta y_B = \frac{t^3}{3} + 2\frac{t^2}{2} = \frac{t^3}{3} + t^2$$

$$\Delta y_D = \frac{-\Delta y_B}{2} = -\frac{1}{2}\left(\frac{t^3}{3} + t^2\right)$$

$$\Delta y_C = \Delta y_\omega = \frac{\Delta y_D}{2} \Rightarrow \Delta y_\omega = -\frac{1}{4}\left(\frac{t^3}{3} + t^2\right) = -\frac{1}{4}\left(\frac{5^3}{3} + 5^2\right) = -16\ m.s^{-1}$$

مسألة 16.2 ص105

كتلتان A و B متصلتان بحبل يمر على ثلاث بكرات C، D، E كما في الشكل حيث البكرتان C و E مثبتتان بينما بكرة D تتحرك إلى الأسفل بحركة متسقة بسرعة قدرها ($V_D = 1,5\ m.s^{-1}$) وعند الزمن ($t=0$) تبدأ الكتلة A في التحرك إلى الأسفل من الموضع K بتسارع ثابت وبدون سرعة ابتدائية، فإذا كانت سرعة الكتلة A عند مرورها بالموضع L هي ($V_A = 6\ m.s^{-1}$) المطلوب: إيجاد التغير في الارتفاع وسرعة الكتلة B وتسارعها عند مرور الكتلة A بالموضع L علماً أن ($KL = 4\ m$)

حل:

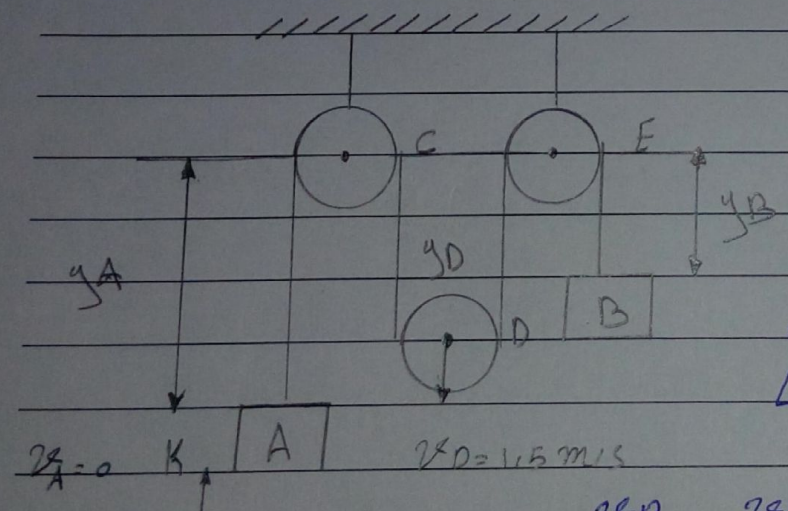

$$y_A + 2y_D + y_B = const$$

$$V_A + 2V_D + V_B = 0 \quad \ldots (1)$$

$$a_A + 2a_D + a_B = 0 \quad \ldots (2)$$

$$\Delta y_A + 2\Delta y_D + \Delta y_B = 0 \quad \ldots (3)$$

من (1) نجد

$$V_B = -V_A - 2V_D = -6 - 2\times 1,5 = -9\ m.s^{-1}$$

حيث $\Delta y_A = KL = 4m$ ،

$$V_A^2 - V_{A0}^2 = 2a_A \cdot \Delta y_A \Rightarrow$$

$$6^2 - 0 = 2a_A \times 4 \Rightarrow a_A = \frac{36}{8} = 4,5\ m.s^{-2}$$

$$a_B = -a_A = -4,5\ m.s^{-2}$$

$$\Delta y_D = v_D . t$$

$$v_A = a.t + v_0 \Rightarrow t = \frac{v_A}{a_A} = \frac{6}{4,5} = 1,33\ s$$

$$\Delta y_D = 1,5 \times 1,33 = 2\ m$$

$$\Delta y_B = -2\Delta y_D - \Delta y_A \Rightarrow \Delta y_B = -2\times 2 - 4 = -8\ m$$

التغير نحو الأعلى